مراجعه الثالث + الثاني

س١) تبلغ تكلفة اللعب في إحدى الالعاب ٩ ريالات في الساعة مضافا إليها ٤ ريالات رسم دخول . أنشئ جدولا يبين التكلفة الكلية لكل ساعة . هل تتناسب التكلفة مع عدد الساعات ؟

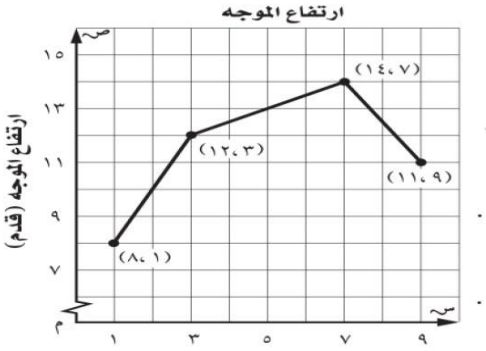

س٢) (١) أوجد معدل التغير في الارتفاع اليومي للموجات بين اليومين الاول والثالث .

(٢) بين أي يومين يكون ارتفاع الموجه اشد انخفاض

س٣) اوجد معدل التغير للمستقيم المعطى في الجدول التالي

س	٣	٥	٧	٩
ص	-١	٢	٥	٨

س٤) اوجد المعدل الثابت للتغير للشكل الاتي :

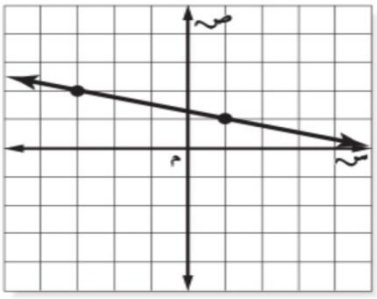

س٥)

١) حدد اذا كان زوج النسب التالية يشكل تناسب ام لا $\frac{٦}{٨} = \frac{٣}{٤}$	٢) حل التناسب الاتي : $\frac{٤٤}{ب} = \frac{١١}{٥}$	٣) في فحص طبي لأحد المرضى ، اجري تمدد لبؤبؤ العين بعامل مقياس مقداره $\frac{٥}{٣}$ إذاكان قطر البؤبؤ قبل التمدد يساوي ٥ ملم ، فاوجد طول القطر بعد التمدد

س٦)

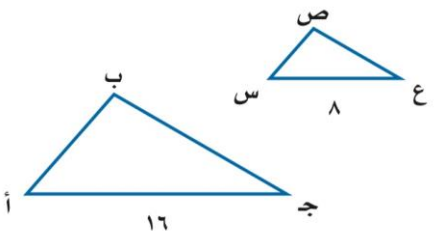

إذا كان △ أ ب جـ ~ △ س ص ع، ومحيط △ أ ب جـ يساوي ٤٠ وحدة، فما محيط △ س ص ع؟
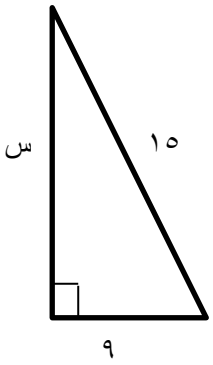
س٧) ماطول الضلع المجهول للمثلث المرسوم جانبا